Nom, prénom : …….. classe : ……..

Activité 1 Les organes du mouvement	Questions	MI	MF	MS	TBM
1.3 utiliser un vocabulaire scientifique pour légender un schéma	1, 2 et 3				
2.1 Faire son travail à la maison					
1.3 Extraire des informations d'une vidéo	4 et 5				
3.2 Respecter les règles de classe					

Répondre aux questions à l'aide de la vidéo

1) Compléter les **titres** des documents 1 et 4 avec **os et muscles.**

2) Légender le **document 1** avec **radius**, **cubitus**, **fémur**, **humérus.**

3) Légender le **document 2** avec **épaule**, **coude**, **genou.**

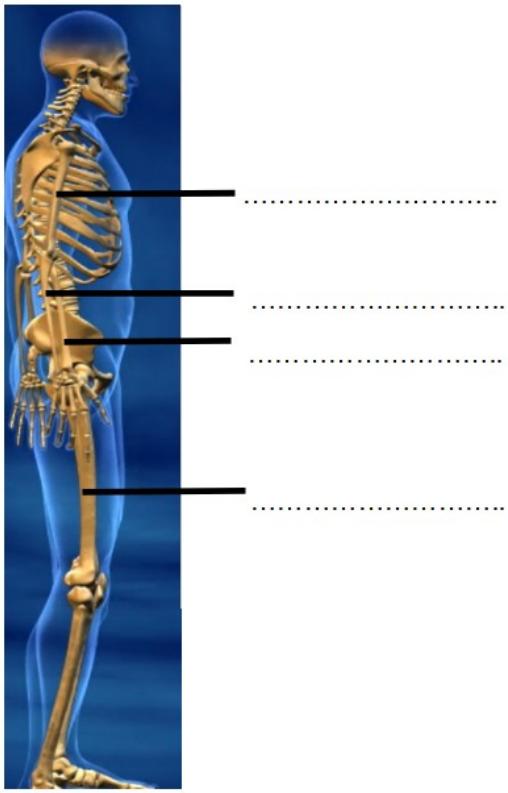

Document 1. Schéma des ..... du corps humain de profil

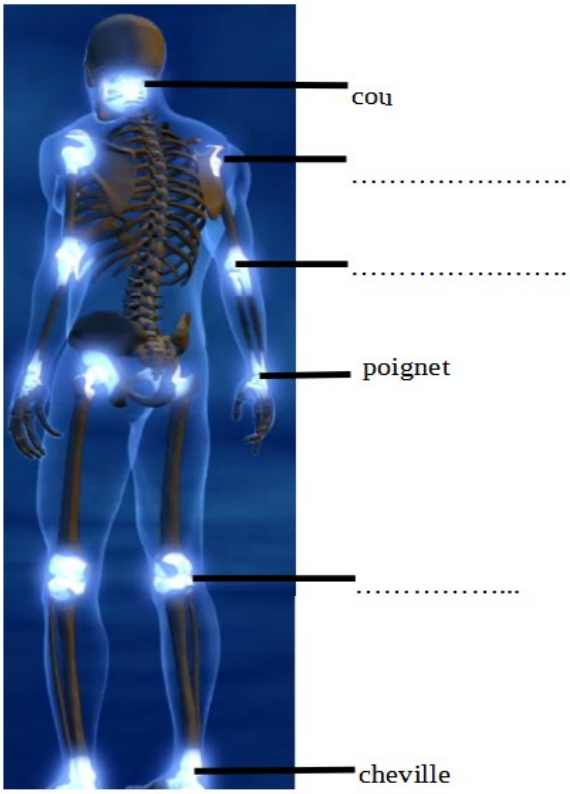

Document 2. Schéma des **articulations** du corps humain de dos

Document 3. Schéma des **tendons** du corps humain de face

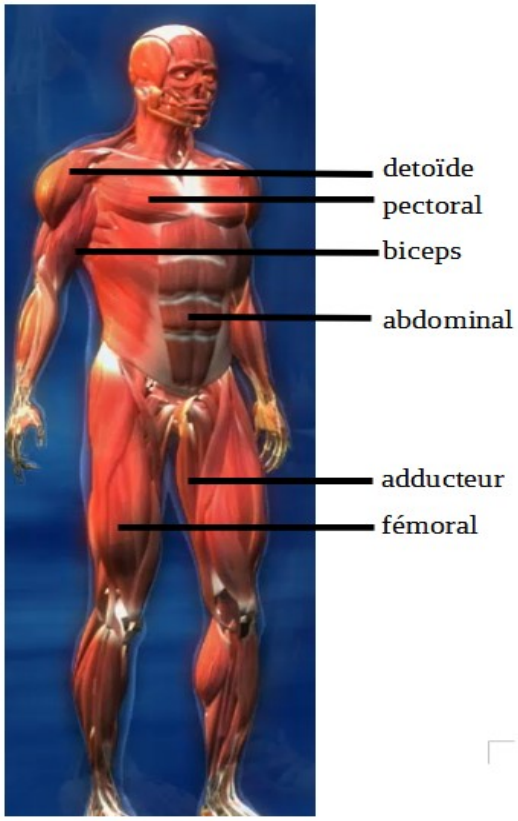

Document 4. Schéma des …….. du corps humain de face

4) Choisir le nombre de muscles striés squelettiques y a-t-il dans le corps ?
□ Au moins 100 □ Au moins 600 □ Au moins 800

5) Légender les **documents 5 et 6** avec **muscle relâché**, **muscle contracté** et **tendon** (2 fois).

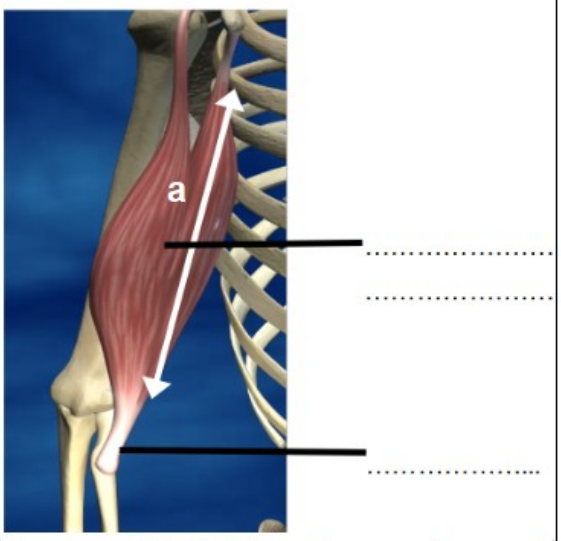

Document 5. Schéma du muscle quand le bras est tendu

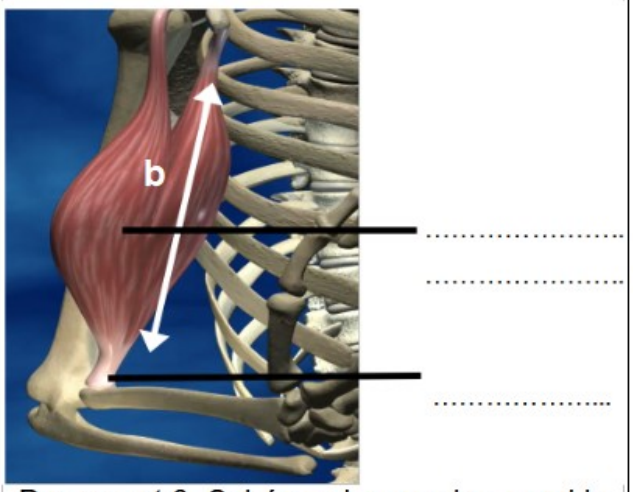

Document 6. Schéma du muscle quand le bras est plié

6) Choisir sur quoi les muscles exercent une pression quand ils se contractent :

□ les ligaments □ les tendons □ les fibres musculaires

7) Quel est le rôle des tendons ?

……